CNM	الحساب الذهني والحساب السريع	40	35	60	36	16	10 نقط نقطة لكل جواب صحيح
		5	25	90	27	8	

CN5 — أتعرف التناسبية وأوظفها لملء جداول وضعيات تناسبية وأحل مسائل تتعلق بها — **6 نقط** نقطة ونصف لكل جواب صحيح

-1

عدد البقرات	1	4	10
كمية الحليب باللتر	15	60	150

-2
- تعطي 4 بقرات 60 لتر حليب يوميا.
- تعطي 10 بقرات 150 لتر حليب يوميا.

CN6 — أقرأ وأكتب وأمثل وأفكك وأقارن وأرتب الأعداد العشرية.

-1 $3,39 < 3,7$ — 3نقط

-2 $8,47 < 8,5 < 8,56$ — 4 نقط

-3 — 3نقط

GM3 — أتعرف السعات والمدد وأنجز تحويلات على الاطوال والكتل والمدد والسعات

-1 17:00 — 3 نقط

-2 2 h = 120 min — 3 نقط

-3 — 3نقط

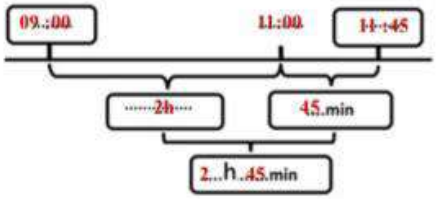

ب- أجيب: المدة التي قضاها أحمد في الحديقة: 2h45 min — 1نقطة

CN7 — أضع وأنجز عمليات جمع وطرح الأعداد العشرية — 4 نقط

-1 أنجز العمليتين

$$\begin{array}{r} 6,3 \\ +\ 7,5 \\ \hline 13, \end{array} \qquad \begin{array}{r} 18,8 \\ -\ 6,4 \\ \hline 12, \end{array}$$

-2 أضع وأنجز العمليتين:

92,14 ////////// 15,3 — 2 نقط للوضع

تحتسب نقطة وحيدة للوضع إذا كان خاطئا والنتيجة صحيحة. — 4 نقط للنتيجة

GM4 — أتعرف الزوايا والتماثل المحوري والدوران وأنشئ الزوايا والأشكال المتماثلة — 4 نقط

-1 التحقق من قياس الزاوية الصحيح.

-2 التحقق من التماثل

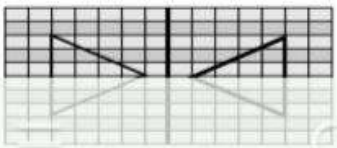

6 نقط

GM5 — أتعرف المجسمات — 10 نقط

- تعطي 10 بقرات 150 لتر حليب يوميا.

CN6	أمثل وأفكك وأقارن وأرتب الأعداد العشرية.	1- 3,39 < 3,7 2- 8,47 < 8,5< 8,56 3- 	3نقط 4 نقط 3نقط
GM3	أتعرف السعات والمدد وأنجز تحويلات على الاطوال والكتل والمدد والسعات	1- 17:00 2- 2 h = 120 min 3- 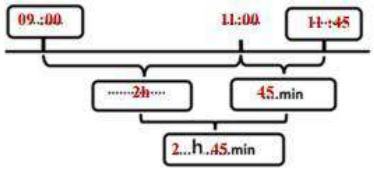 ب- أجيب: المدة التي قضاها أحمد في الحديقة: 2h45 min	3 نقط 3 نقط 3نقط 1نقطة

CN7	أضع وأنجز عمليات جمع وطرح الأعداد العشرية	1- أنجز العمليتين $\begin{array}{r} 6,3 \\ +\ 7,5 \\ \hline 13, \end{array}$ $\begin{array}{r} 18,8 \\ -\ 6,4 \\ \hline 12, \end{array}$ 2- أضع وأنجز العمليتين: 92,14 ////////// 15,3 تحتسب نقطة وحيدة للوضع إذا كان خاطئا والنتيجة صحيحة.	4 نقط 2 نقط للوضع 4 نقط للنتيجة
GM4	أتعرف الزوايا والتماثل المحوري والدوران وأنشئ الزوايا والأشكال المتماثلة	1- التحقق من قياس الزاوية الصحيح. 2- التحقق من التماثل 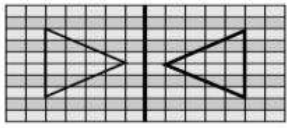	4 نقط 6 نقط
GM5	أتعرف المجسمات ونشورها	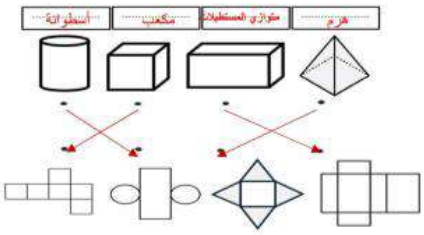 	10 نقط نقطة لكل تسمية صحيحة نقطة ونصف لكل ربط سليم
RP4	أحل مسائل كسر كمية ومسائل تتعلق بحساب الأطوال والمساحات	• اقْتُنِ المُفْطيات بِنموذجِ الأَشْرِطَةِ .(3نقط). • أجيبُ عَنِ الأَسئِلَة بِأَخْذِ المَسأَلَة.(7نقط). • أجِدُ الكَسْرَ الذي يُمَثِّلُ عَدَدَ الأَقلامِ التي أعطاها عُمَرُ بِأَخيه. 1/3 • أَحْدُدُ عَدَدَ الأَجْزاءِ في الكُلِّ: 3 • ما قيمَةِ كُلِّ جُزْءٍ: 12 • أَكْتُبُ مُتَساوِيَةَ الحَلِّ: 3 x 12 = 36 • أَكْتُبُ عِبارَةَ الحَلِّ: عدد الأقلام التي كانت في العلبة : 36 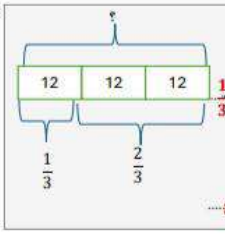 	10 نقط 3 نقط للتمثيل 4 نقط ن1 ن1 ن1 ن2 ن1

CNM	الحساب الذهني والحساب السريع	40	35	60	36	16	10 نقط نقطة لكل جواب صحيح
		5	25	90	27	8	

CN5 — أتعرف التناسبية وأوظفها لملء جداول وضعيات تناسبية وأحل مسائل تتعلق بها — **6 نقط** نقطة ونصف لكل جواب صحيح

-1

عدد البقرات	1	4	10
كمية الحليب باللتر	15	60	150

-2
- تعطي 4 بقرات 60 لتر حليب يوميا.
- تعطي 10 بقرات 150 لتر حليب يوميا.

CN6 — أقرأ وأكتب وأمثل وأفكك وأقارن وأرتب الأعداد العشرية.

-1 $3,39 < 3,7$ — 3نقط

-2 $8,47 < 8,5 < 8,56$ — 4 نقط

-3 — 3نقط

GM3 — أتعرف السعات والمدد وأنجز تحويلات على الاطوال والكتل والمدد والسعات

-1 17:00 — 3 نقط

-2 2 h = 120 min — 3 نقط

-3 — 3نقط

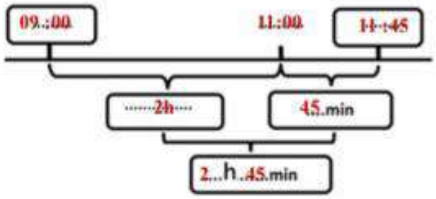

ب- أجيب: المدة التي قضاها أحمد في الحديقة: 2h45 min — 1نقطة

CN7 — أضع وأنجز عمليات جمع وطرح الأعداد العشرية — 4 نقط

-1 أنجز العمليتين

$$\begin{array}{r} 6,3 \\ +\ 7,5 \\ \hline 13, \end{array} \qquad \begin{array}{r} 18,8 \\ -\ 6,4 \\ \hline 12, \end{array}$$

-2 أضع وأنجز العمليتين:

92,14 ////////// 15,3 — 2 نقط للوضع

تحتسب نقطة وحيدة للوضع إذا كان خاطئا والنتيجة صحيحة. — 4 نقط للنتيجة

GM4 — أتعرف الزوايا والتماثل المحوري والدوران وأنشئ الزوايا والأشكال المتماثلة — 4 نقط

-1 التحقق من قياس الزاوية الصحيح.

-2 التحقق من التماثل

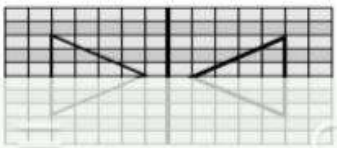

6 نقط

GM5 — أتعرف المجسمات — 10 نقط